Découvrir le monde

Exercice 1: Découvrir les formes et les grandeurs.
Ranger selon des critères donnés par l'enseignant.



Entoure l'igloo qui est sous un nuage.

Entoure l'ours qui est devant les autres.



Entoure l'ours qui est entre 2 igloos.



Entoure le sapin qui est à côté d' bonhomme de neige



Entoure le nuage qui est au dessus de la maison.



Entoure l'ours qui est à l'intérieur du cerceau.

	
Entoure l'oiseau le plus grand.	Entoure l'autobus le plus court.
	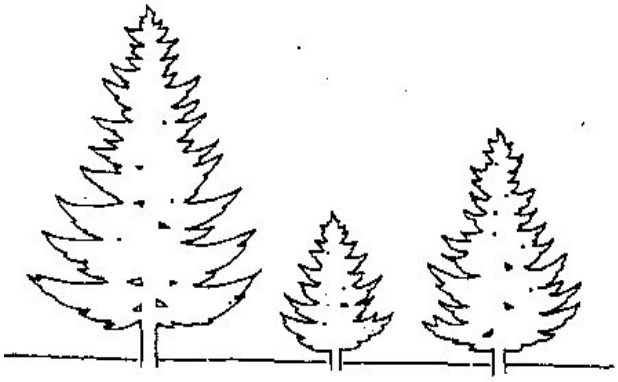
Entoure le chien le plus long.	Entoure l'arbre le plus petit.

Item 1	A	CA	NA

Découvrir le monde:

Exercice 2: Découvrir les formes et les grandeurs.

Classer selon des critères donnés par l'enseignant. Reconnaître les formes géométriques.

Fais une croix :

- *en bleu sur les ronds*
- *en rouge sur les triangles*
- *en vert sur les carrés*
- *en jaune sur les rectangles*



Item 2	A	CA	NA

Découvrir le monde

Exercice 3: Approcher les nombres et les quantités
Dénombrer une quantité en utilisant la suite orale des nombres connus.

Tu comptes le nombre d'objets dessinés dans chaque case et tu écris ce nombre dans l'étiquette correspondante.

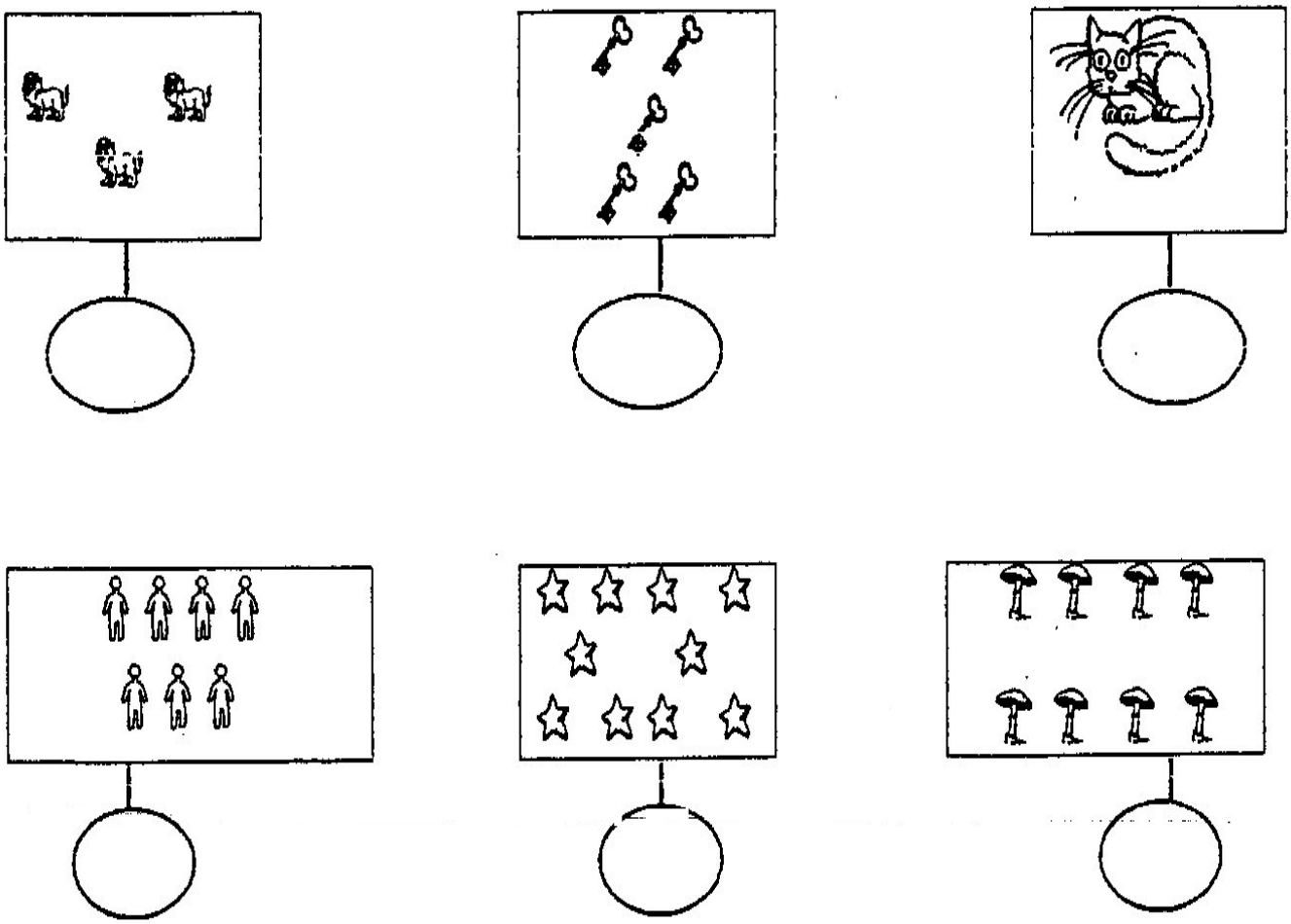

Item 3	A	CA	NA

Exercice 3 (suite): Approcher les nombres et les quantités.
Dessiner une quantité.

Dans chacune des cases, dessine le nombre de ronds énoncés par l'enseignant.

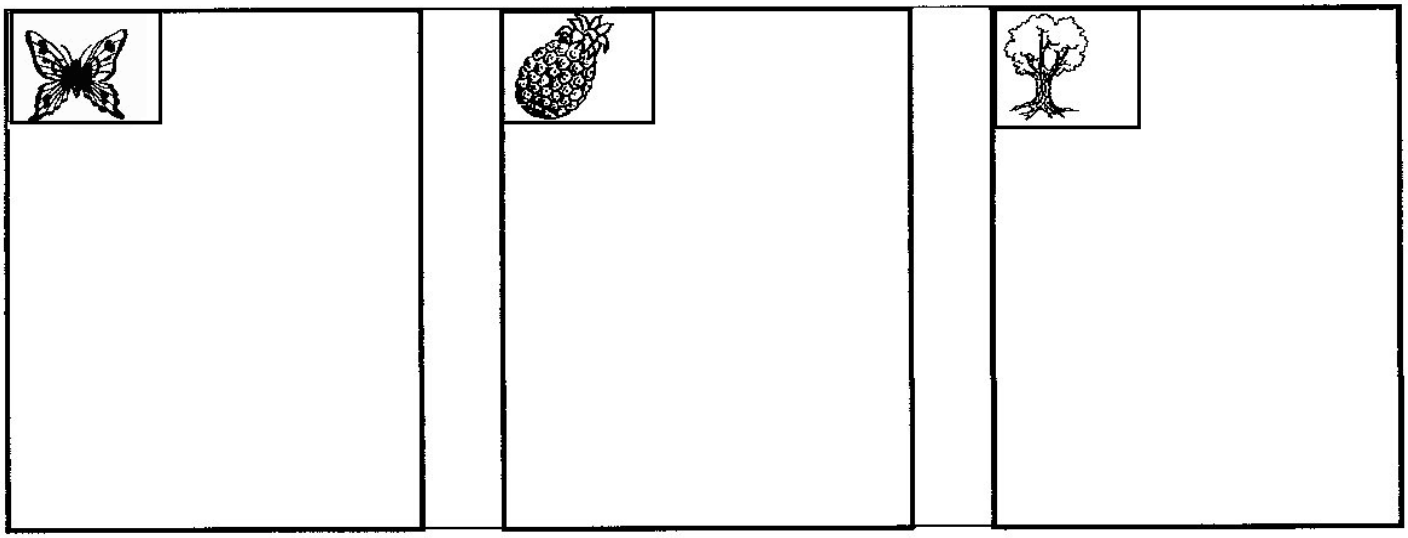

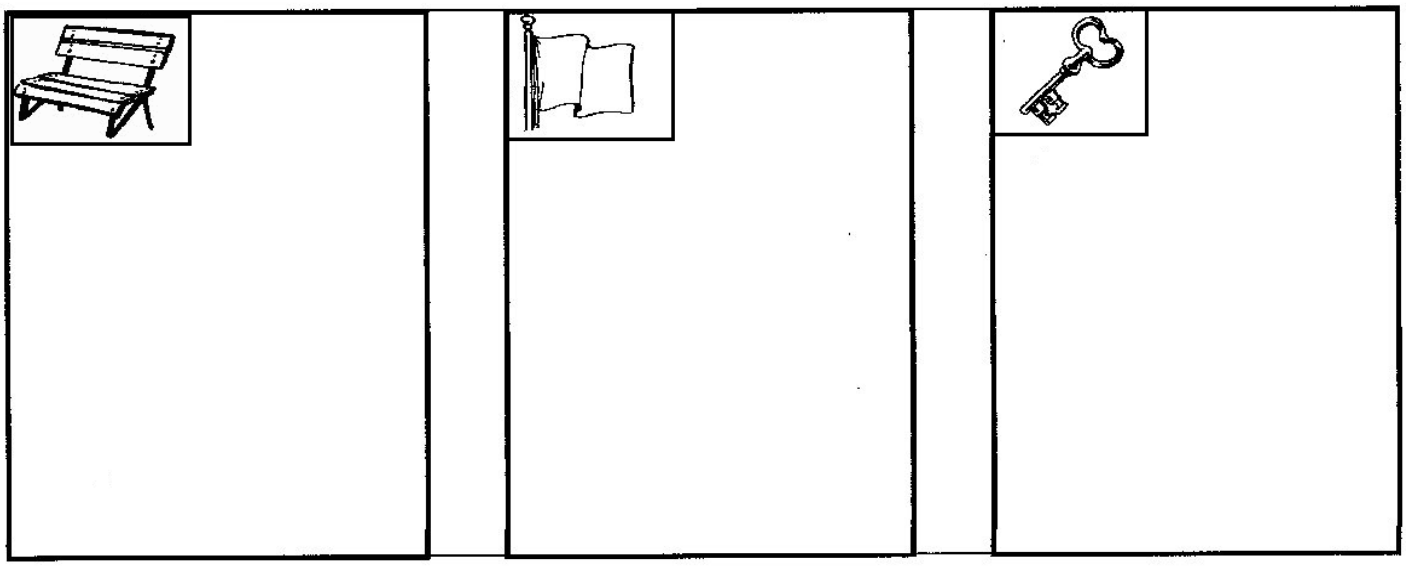

Item 4	A	CA	NA

Découvrir le monde

Exercice 4: Approcher les nombres et les quantités
Associer le nom des nombres connus avec leur écriture chiffrée.

Tu entoures le nombre dicté par le maître ou la maîtresse.

5	**15**	**3**	**13**	**9**

20	**1**	**11**	**8**	**7**

2	**14**	**4**	**17**	**3**

22	**28**	**24**	**20**	**29**

25	**21**	**29**	**30**	**27**

Item 5	A	CA	NA

Item 6	A	CA	NA

Découvrir le monde

Exercice 5: Approcher les quantités et les nombres.
Connaître la comptine numérique.

On a écrit des nombres qui se suivent dans les cases, mais on en a oublié. Tu écris les nombres qui manquent dans chaque bande numérique. Regarde bien par quoi ça commence à chaque fois.

	1	2	3	4		6	7	8

	2		4	5	6	7	8

	11	12	13	14	15	16	

	27	28		30	31

Item 7	A	CA	NA

Découvrir le monde

Exercice 6: Approcher les quantités et les nombres.
Comparer des quantités.

Tu dessines :

- **Plus** de croix que de fleurs.
- **Moins** de croix que de points.
- **Autant** de croix que de lapins.

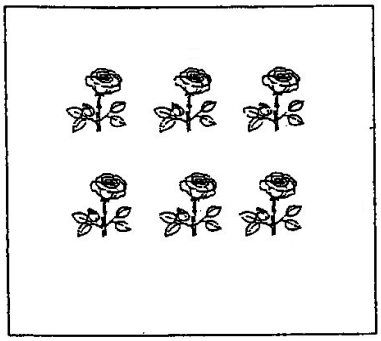

Plus que



Moins que



Autant que

Item 8	A	CA	NA

Découvrir le monde

Exercice 7 : Approcher les quantités et les nombres.
Résoudre des problèmes portant sur des quantités.

Ex 7- A:

Max a 4 billes.



Maya lui donne 3 billes.

Maintenant,
Max a ..... billes.



Théo a 9 ballons.



4 ballons s'envolent.

Maintenant,
Théo a ..... ballons.

Item 9	A	CA	NA

Ex7 – B:

Les enfants vont au cinéma. Ils attendent pour entrer.

1) Est-ce que chaque enfant aura une place ?
2) Y a-t-il plus d'enfants que de fauteuils ?
3) Y a-t-il plus de fauteuils que d'enfants ?



1	☺
	☹

2	☺
	☹

3	☺
	☹

Item10	A	CA	NA

Découvrir le monde

Exercice 8:

Se repérer dans un tableau à double entrée.

Dessine les graphismes appropriés dans les vêtements. Tu ne dessines rien dans les cases grises.



Item11	A	CA	NA

Découvrir le monde

Exercice 9: Se repérer dans le temps.
Situer des évènements les uns par rapport aux autres.

Je vais te lire une histoire. Dès que j'aurai fini, je te donnerai des images et tu les placeras dans l'ordre de l'histoire que j'ai lue.

Item12	A	CA	NA